PRUEBA PARA LA OBTENCIÓN DEL TÍTULO DE GRADUADO EN EDUCACIÓN SECUNDARIA OBLIGATORIA DESTINADA A PERSONAS MAYORES DE DIECIOCHO AÑOS

JUNIO 2017

DATOS DEL ASPIRANTE	CALIFICACIÓN
Apellidos: _____ Nombre: _____ DNI:_____ IES/CEPA: _____	

ÁMBITO SOCIAL

1. Localice los siguientes accidentes geográficos en el continente correspondiente: ***(3 puntos)***

1. Mar Báltico	2. Río Orinoco	3. Isla de Borneo	4. Canal de Suez
5. Montañas Rocosas	6. Península Escandinava	7. Río Congo	8. Himalaya
9. Río de la Plata	10. Cabo de Buena Esperanza	11. Montes Cárpatos	12. Nueva Zelanda
13. Madagascar	14. Estrecho de Magallanes	15. Everest	16. Río Sena

EUROPA	ASIA	ÁFRICA	AMÉRICA DEL NORTE	AMÉRICA CENTRAL Y DEL SUR	OCEANÍA

2. Sitúe en el mapa político y en el mapa físico de España las siguientes provincias y accidentes geográficos, respectivamente (sólo tiene que colocar el número en el mapa): ***(2 puntos)***

1. Huelva	2. Huesca	3. Zamora	4. Castellón
5. Álava	6. Ciudad Real	7. Lugo	8. Gerona
9. Isla de Fuerteventura	10. Sistema Central	11. Depresión del Guadalquivir	12. Estrecho de Gibraltar
13. Río Duero	14. Cabo de Palos	15. Golfo de Vizcaya	16. Pirineos

3. Conteste a las siguientes cuestiones, subrayando la respuesta correcta: ***(3 puntos)***

A. El sector secundario comprende las actividades:
   a) Relacionadas con la naturaleza.
   b) De transformación de materias primas en productos manufacturados.
   c) De servicios.
   d) Agrícolas.

B. La población activa está integrada por:
   a) Los ocupados.
   b) Los ocupados y los desempleados.
   c) Los que reuniendo las condiciones para trabajar encuentran empleo.
   d) Los ocupados y los activos.

C. La productividad:
   a) Está relacionada con la competitividad.
   b) Hace referencia a la cantidad de bienes producidos por el trabajador.
   c) Hace referencia a la eficiencia con que se lleva a cabo la producción, relacionando la cantidad de recursos utilizados con la cantidad de producción obtenida.
   d) Todas las respuestas anteriores son incorrectas.

D. Indique cuál de los siguientes agentes interviene en la actividad económica.
   a) Bienes.
   b) Servicios.
   c) Sector primario.
   d) Todas las respuestas anteriores son correctas.

E. ¿Cuál de los siguientes organismos no forma parte de la Unión Europea?
   a) El Parlamento Europeo.
   b) El Consejo Europeo.
   c) La Comisión Europea.
   d) El Banco de España.

F. ¿El efecto invernadero es un proceso natural?
   a) Sí, el hombre no ha podido influir en él.
   b) Sí, pero agravado por el hombre.
   c) No, es provocado por el hombre.
   d) El efecto invernadero no existe.

G. Indique cuál es la definición correcta:
   a) Las estrellas son planetas que no emiten luz.
   b) Las estrellas son cuerpos celestes que emiten luz propia.
   c) Los satélites son cuerpos celestes que tienen enormes nubes de gas.
   d) Los satélites son cuerpos celestes que no orbitan alrededor de un planeta.

H. El crecimiento vegetativo es:
   a) El número de defunciones producidas en un año.
   b) El número de nacidos en un año.
   c) La diferencia entre el número de nacidos y el número de fallecidos de una población en un determinado período de tiempo.
   d) La diferencia entre la población que sale y la que llega a un país.

I. Los poderes del Estado son:
   a) Legislativo, Ejecutivo y Judicial.
   b) Legislativo y Judicial.
   c) Ejecutivo y Judicial.
   d) Especulativo.

J. ¿Cuál de los siguientes países es el más poblado?
   a) España.
   b) China.
   c) Marruecos.
   d) Canadá.

4. Responda a las siguientes cuestiones: ***(2 puntos)***

a) ¿Qué es la traslación y la rotación de la Tierra?

b) Indique tres tipos de mapas que existan en Geografía.

c) ¿Qué zonas climáticas componen la Tierra por temperatura? ¿Qué líneas imaginarias las separan?

d) ¿Qué climas hay en la Tierra? ¿Qué climas tiene la Península Ibérica?

5. Analice la siguiente pirámide de población y conteste a las preguntas. ***(2 puntos)***

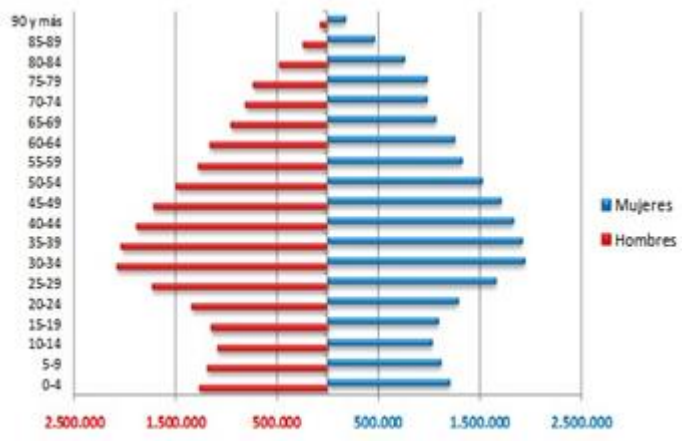

a) ¿Qué grupo de población es el que predomina?

b) ¿Cómo es la natalidad de la población?

c) ¿A qué tipo de países corresponde esta pirámide?

6. Indique si las siguientes afirmaciones son verdaderas (V) o falsas (F). ***(2 puntos)***

a) España se organiza territorialmente en municipios, en provincias y en comunidades autónomas.
b) La FAO es el organismo que se encarga de mejorar los niveles de nutrición y la calidad de vida y garantizar mejoras en la eficiencia de la producción y distribución de los productos alimenticios y agrícolas.
c) El FMI es un organismo que ofrece préstamos a países que lo necesitan, imponiendo una determinada política económica, generalmente con recortes en gastos públicos.
d) La OTAN es una organización de carácter pacífico.

7. Sitúe cada acontecimiento histórico en la etapa a la que corresponde. ***(2 puntos)***

a) Gutenberg y la imprenta.
b) Imperio de Napoleón Bonaparte
c) Inicio del sedentarismo de las sociedades.
d) I Guerra Mundial.
e) Invención de la rueda.
f) Caída del Imperio Romano de Occidente.
g) Alexander Fleming y la penicilina.
h) Las Cruzadas.
i) Desastre natural provocado por la Peste Negra.
j) Revolución bolchevique.
k) Revolución industrial.
l) Isaac Newton formula la Teoría de la Gravitación Universal.
m) Surgimiento de la escritura.
n) El Siglo de Oro español.

PREHISTORIA	EDAD ANTIGUA	EDAD MEDIA	EDAD MODERNA	EDAD CONTEMPORÁNEA

8. Conteste las siguientes cuestiones, subrayando la respuesta correcta: ***(3 puntos)***

A. España pierde Cuba, Filipinas y Puerto Rico en el año:
a) 1492.
b) 1898.
c) 1808.

B. La invasión musulmana de la Península Ibérica tuvo lugar en el año:
a) 218 a.C.
b) 711.
c) 100.

C. La Reconquista se inició por:
a) Batalla de Las Navas de Tolosa.
b) Rebelión de D. Pelayo.
c) Batalla de Trafalgar.

D. ¿Qué se entiende por totalitarismo?
a) Un estilo arquitectónico.
b) Una religión.
c) Un tipo de organización política.

E. La aparición de la metalurgia se produjo en:
   a) La Edad Media.
   b) El Neolítico.
   c) La Edad Antigua.

F. El dios más importante del panteón romano fue:
   a) Poseidón.
   b) Atenea.
   c) Júpiter.

G. ¿Cuál de estos pueblos no formaba parte de los "bárbaros" que acabaron con el Imperio Romano?
   a) Dorios.
   b) Visigodos.
   c) Francos.

H. El proceso de Unificación alemana fue liderado, especialmente, por:
   a) Víctor Manuel II.
   b) Cavour.
   c) Bismarck.

I. La "Triple Alianza" y la "Triple Entente" fueron bandos en conflicto en:
   a) La I Guerra Mundial.
   b) La II Guerra Mundial.
   c) La Guerra de los Balcanes.

J. El fin de la Guerra Fría supuso:
   a) El establecimiento del modelo económico comunista en Europa.
   b) La instauración del bloque comunista y la constitución de la URSS.
   c) La descomposición del bloque comunista y la desaparición de la URSS.

9. Relacione las palabras de la columna izquierda con su definición: ***(2 puntos)***

Feudalismo	1		Corriente cultural que se preocupa por estudiar al hombre.
Islam	2		Proceso por el que los cristianos van conquistando a los musulmanes territorio peninsular.
Valido	3		Burgués o adinerado que acoge a un artista y le paga sus obras.
Primogénito	4		Ayudante y gobernador de los reyes españoles del siglo XVII.
Reconquista	5		Sistema de gobierno propio de la Edad Media, basado en una serie de lazos y obligaciones que vinculaban a vasallos y señores.
Mecenas	6		Es el primer hijo varón que hereda todas las riquezas de la familia.
Humanismo	7		Representación de Cristo en las iglesias en posición autoritaria.
Pantocrátor	8		Religión que nace en Arabia en el siglo VII y cuyo fundador fue por Mahoma.

10. Indique si las siguientes afirmaciones son verdaderas (V) o falsas (F): ***(2 puntos)***

a) La Revolución francesa llegó a su fin con la derrota de Napoleón Bonaparte en la batalla de Waterloo.

b) La Edad de Bronce es una etapa de la Edad Antigua.

c) La toma de Granada por los Reyes Católicos en 1492, puso fin al poder islámico en la Península Ibérica.

d) La cultura maya se desarrolló en la América precolombina.

e) El detonante del conflicto que dio lugar a la I Guerra Mundial fue el asesinato del archiduque Francisco Fernando de Habsburgo.

f) La Ilustración confiaba en el progreso de los seres humanos y en la razón.

g) Afrodita era una diosa egipcia.

h) La razón de que los tres poderes del Estado se encuentren separados es que así cada grupo social tiene el suyo propio.

i) Una de las causas de la crisis del 29 fue la dependencia, en exceso, de los préstamos bancarios en la actividad económica.

j) "Faraón" es la denominación dada al soberano del Antiguo Egipto.

11. Observe las siguientes fotografías y responda a las cuestiones: ***(3 puntos)***

NOMBRE DE LA OBRA:
La Resurrección ___
El Entierro del Conde Ordaz ___
El Paraíso ___

AUTOR:
El Greco ___
Miguel Ángel ___
Francisco de Goya ___

ESTILO ARTISTÍCO:
Renacimiento ___
Realismo ___
Expresionismo ___

NOMBRE DE LA OBRA:
Catedral de Burgos ___
Catedral de Murcia ___
Catedral de Santiago de Compostela ___

SIGLO DE INICIO DE LA CONSTRUCCIÓN:
XVI ___
XIII ___
XVII ___

ESTILO ARTÍSTICO:
Románico ___
Gótico ___
Modernista ___



NOMBRE DE LA OBRA:
Los Relojes Derretidos ___
Los Relojes Suaves ___
Los Relojes Rotos ___

AUTOR:
Pablo Picasso ___
Salvador Dalí ___
Andy Warhol ___

ESTILO ARTÍSTICO:
Impresionismo ___
Pop Art ___
Surrealismo ___



NOMBRE DE LA OBRA:
El Pensador ___
El Moisés ___
El David ___

AUTOR:
Leonardo da Vinci ___
Velázquez ___
Miguel Ángel ___

ESTILO ARTISTÍCO:
Renacimiento ___
Barroco ___
Clásico ___

12. Observe las siguientes fotografías y responda a las cuestiones: ***(1 punto)***



a) ¿A qué estilo arquitectónico corresponden las obras que muestran las imágenes?

b) Señale, sobre las imágenes, dos características de la arquitectura de este estilo arquitectónico.

c) Señale dos obras que pertenezcan a este estilo artístico arquitectónico.

13. Relacione cada autor con su obra (solo tiene que colocar los números en los cuadros en blanco). ***(2 puntos)***

1. Johann Sebastian Bach	El Lago de los Cisnes	
2. Antonio Vivaldi	Las Bodas de Fígaro	
3. Ludwig van Beethoven	La Traviata	
4. Wolfgang Amadeus Mozart	Las Cuatro Estaciones	
5. Piotr Ilich Tchaikovski	Pasión según San Mateo	
6. Giuseppe Verdi	Sonata n.º 14 "Claro de Luna"	

14. ¿Qué es una ONG? Enumere dos que conozca y sus objetivos. ***(1 punto)***